Документ подписан простой электронной подписью
Информация о владельце:
ФИО: Крылова Людмила Вячеславовна
Должность: Проректор по учебно-методической работе
Дата подписания: 28.10.2026 07:51:54
Уникальный программный ключ:
b066544ba1e449cd8bfea392f324a676a371b2

МИНИСТЕРСТВО НАУКИ И ВЫСШЕГО ОБРАЗОВАНИЯ РОССИЙСКОЙ ФЕДЕРАЦИИ

ФЕДЕРАЛЬНОЕ ГОСУДАРСТВЕННОЕ БЮДЖЕТНОЕ ОБРАЗОВАТЕЛЬНОЕ УЧРЕЖДЕНИЕ ВЫСШЕГО ОБРАЗОВАНИЯ «ДОНЕЦКИЙ НАЦИОНАЛЬНЫЙ УНИВЕРСИТЕТ ЭКОНОМИКИ И ТОРГОВЛИ ИМЕНИ МИХАИЛА ТУГАН-БАРАНОВСКОГО»

Кафедра холодильной и торговой техники имени Осокина В.В.

УТВЕРЖДАЮ

Заведующий кафедрой холодильной и торговой техники имени Осокина В.В.

_____ К.А. Ржесик
(подпись)

«09» февраля 2026 г.

ОЦЕНОЧНЫЕ МАТЕРИАЛЫ
по дисциплине

Б1.В.03 «Теоретические основы холодильной техники»

13.03.03 «Энергетическое машиностроение», 38.03.01 «Экономика»

Профиль: Инженерная экономика

Разработчик:
доцент _____ В.Р. Блинов

ОМ рассмотрены и утверждены на заседании кафедры от «09» февраля 2026 г., протокол №24

Донецк 2026 г.

Паспорт
оценочных материалов по дисциплине
«Теоретические основы холодильной техники»

Перечень компетенций (элементов компетенций), формируемых в результате освоения дисциплины (модуля)

№ п/п	Код контролируемой компетенции	Формулировка контролируемой компетенции	Контролируемые разделы (темы) дисциплины (модуля)	Этапы формирования (семестр изучения)
1.	ПК-6	Способен проводить анализ работы объектов профессиональной деятельности	**Смысловой модуль 1.** 1. Общие сведения 2. Физические процессы получения низких температур; **Смысловой модуль 2.** 1. Термодинамические основы холодильных машин; 2. Рабочие вещества холодильных машин; **Смысловой модуль 3.** 1. Циклы и схемы паровых холодильных машин; 2. Циклы и схемы газовых холодильных машин.	5

Показатели и критерии оценивания компетенций, описание шкал оценивания

Таблица 1 – Показатели оценивания компетенций

№ п/п	Код контролируемой компетенции	Показатель оценивания (знания, умения, навыки)	Контролируемые разделы (темы) дисциплины (модуля)	Наименование оценочного средства
1.	ПК-6 Способен проводить анализ работы объектов профессиональной деятельности	**Знать:** основные процессы внутреннего и внешнего охлаждения, используемые в технике низких температур; схемы и циклы одноступенчатых и многоступенчатых паровых холодильных машин, их сходства и различия, достоинства и недостатки; принципы теплового расчёта паровых одноступенчатых и многоступенчатых холодильных машин; методы, используемые для термодинамического анализа холодильных машин; методы сокращения необратимых потерь в циклах холодильных машин; классификацию, основные свойства рабочих веществ холодильных машин. **Уметь:** пользоваться основной и справочной литературой, термодинамическими диаграммами и таблицами рабочих веществ; проводить построение циклов холодильных машин в термодинамических диаграммах, определять основные параметры в узловых точках цикла; выполнять тепловой расчёт циклов холодильных машин; оценивать и выбирать наиболее подходящий для поставленных условий холодильный агент. **Владеть:** практическими навыками эксплуатации холодильных установок; практическими навыками техники безопасности при эксплуатации холодильных установок.	**Смысловой модуль 1.** 1. Общие сведения 2. Физические процессы получения низких температур; **Смысловой модуль 2.** 1. Термодинамические основы холодильных машин; 2. Рабочие вещества холодильных машин; **Смысловой модуль 3.** 1. Циклы и схемы паровых холодильных машин; 2. Циклы и схемы газовых холодильных машин.	Тест, Контрольная работа Тест, Контрольная работа

Таблица 2 – Критерии и шкала оценивания по оценочному средству «Тесты»

Шкала оценивания (интервал баллов)	Критерии оценивания
8-10	Тесты выполнены на высоком уровне (правильные ответы даны на 90-100% вопросов)
5-7	Тесты выполнены на среднем уровне (правильные ответы даны на 75-89% вопросов)
1-4	Тесты выполнены на низком уровне (правильные ответы даны на 60-74% вопросов
0	Тесты выполнены на неудовлетворительном уровне (правильные ответы даны менее чем 60%)

Таблица 3 – Критерии и шкала оценивания по оценочному средству «Контрольная работа»

Шкала оценивания (интервал баллов)	Критерии оценивания
8-10	Контрольная работа выполнена на высоком уровне (правильные ответы даны на 90-100% вопросов)
5-7	Контрольная работа выполнена на среднем уровне (правильные ответы даны на 75-89% вопросов)
1-4	Контрольная работа выполнена на низком уровне (правильные ответы даны на 60-74% вопросов
0	Контрольная работа выполнена на неудов-летворительном уровне (правильные ответы даны менее чем 60%)

Примерный перечень оценочных материалов

№ п/п	Наименование оценочного средства	Краткая характеристика оценочного средства	Представление оценочного средства в фонде
1.	Контрольная работа	Средство проверки умений применять полученные знания по изученным учебным темам на практике.	Комплект контрольных заданий по вариантам
2.	Тесты	Система стандартизированных заданий, позволяющая автоматизировать процедуру измерения уровня знаний и умений студентов.	Фонд тестовых заданий

ПЕРЕЧЕНЬ ОСНОВНЫХ ВОПРОСОВ К ЭКЗАМЕНУ

1. В чем состоит принцип охлаждения и замораживания пищевых продуктов?
2. В чем сущность естественного и искусственного охлаждения?
3. Какие существуют способы получения искусственного холода?
4. В чем состоят принципы изменения агрегатного состояния веществ?
5. В чем состоит непрерывность холодильной цепи?
6. По каким признакам классифицируются холодильники?
7. Какой принцип термоэлектрического охлаждения?
8. Из каких основных устройств состоит холодильная машина?
9. Какие процессы происходят в теплообменных аппаратах холодильной машины?
10. Какие узлы холодильной машины относятся к основным, какие процессы в них происходят?
11. Какие узлы холодильной машины относятся к вспомогательным, в чем их назначение?
12. В чем назначение холодильных агентов?
13. Какие требования, предъявляются к холодильным агентам?
14. Какие холодильные агенты применяются в торговом холодильном оборудовании?
15. Какие свойства и область применения хладагентов?
16. Какие свойства и область применения аммиака?
17. По каким признакам классифицируется торговое холодильное оборудование?
18. Как конструктивно выполнено торговое холодильное оборудование?
19. Что такое холодопроизводительность и каковы единицы ее измерения?
20. Что характеризует холодильный коэффициент? Каковы его значения
21. Как выражается уравнение теплового баланса?
22. Какие холодильные шкафы применяются в торговле?
23. Назовите приборы, защищающие торговое холодильное оборудование от токов перегрузки и короткого замыкания.
24. Какие приборы регулируют температуру в холодильном оборудовании?
25. В чем заключается принцип оттаивания снеговой «шубы»?
26. В чем преимущества оборудования с централизованным холодоснабжением?
27. Какими признаками характеризуется нормальная работа холодильной машины?
28. Каковы достоинства изделий с заливной пенополиуретановой теплоизоляцией?
29. Перечислите особенности унифицированных холодильных витрин
30. Эксплуатационные теплопритоки. Итоговый расчет теплопритоков.
31. Способы охлаждения. Непосредственное и косвенное охлаждение. Сравнительный анализ.
32. Контактное и бесконтактное охлаждение.
33. Понятие о батарейной, воздушной и смешанной системах охлаждения.
34. Системы батарейного охлаждения помещений. Холодильники с теплозащитной рубашкой.
35. Системы воздушного охлаждения помещений.

36. Физические принципы понижения температуры.
37. Реализация непрерывного процесса охлаждения.
38. Виды обратных циклов, источники необратимости.
39. Сочетания внутренне и внешне обратимых процессов. Принцип и уравнение Гюи – Стодолы.
40. Хладагенты. Классификация и обозначение.
41. Классификация холодильных машин. Машина с детандером в области влажного пара

Тестовые задания:

1.Холодопроизводительность холодильной машины Q_0, кВт это:

а) холод, вырабатываемый в течении суток;

б) холод, вырабатываемый 1 кг холодильного агента;

в) холод, вырабатываемый за 1 секунду;

г) холод, вырабатываемый за 1 час.

2. На что указывает первая цифра номера хладона R152:

а) агент является производной метана;

б) агент является производной этана;

в) агент является азеотропной смесью;

г) агент относится к первой, самой безопасной группе веществ.

3. Количество атомов водорода в молекуле хладона R134 равно:

а) последней цифре номера агента;

б) предпоследней цифре номера агента;

в) последней цифре номера агента, уменьшенной на единицу;

г) предпоследней цифре номера агента, уменьшенной на единицу.

4. Если заставить работать бытовой холодильник с открытой дверцей, то температура в комнате через 4 часа:

а) повысится; б) понизится; в) останется без изменения;

5. Что представляют собой две последние цифры номера холодильного агента R 744?

а) величину критического давления;

б) количество атомов хлора и фтора в молекуле;

в) молекулярный вес вещества;

г) процент растворимости агента в смазочном масле.

6. Какой из перечисленных холодильных агентов практически не растворяет смазочное масло?

а) аммиак; в) хладон R22;

б) хладон R12; г) хладон R134a.

7. Производной какого парафина является хладон R22?

а) метана; в) пропана;

б) этана; г) бутана.

8. Удельная холодопроизводительность q_0 это:

а) холод, вырабатываемый машиной за 1 с;

б) холод, вырабатываемый 1 кг холодильного агента;

в) холод, вырабатываемый одной холодильной машиной;

г) холод, вырабатываемый 1 $м^3$ пара холодильного агента.

9. Укажите верную химическую формулу хладона R134a:

а) $C_3H_3ClF_4$; б) $C_2F_4Cl_2$;

в) $C_2F_4H_2$; г) CF_4.

10. На что указывает последняя цифра номера хладона R134a?

а) на количество атомов хлора в молекуле;

б) на принадлежность к хладонам этанового ряда.

в) на количество атомов водорода в молекуле;

г) на принадлежность к хладонам метанового ряда.

11. Опасный режим работы компрессора «влажным ходом» во фреоновых холодильных машинах удаётся избежать путём включения в схему:

а) отделителя жидкости; г) фильтра-осушителя;

б) дроссельного вентиля; д) регенеративного теплообменника.

в) переохладителя жидкости;

12. В каких элементах холодильной машины полностью меняется агрегатное состояние холодильного агента?

а) компрессоре и конденсаторе;

б) конденсаторе и дроссельном вентиле;

в) конденсаторе и испарителе;

г) испарителе и дроссельном вентиле.

13. В каком из перечисленных процессов затрачивается работа?

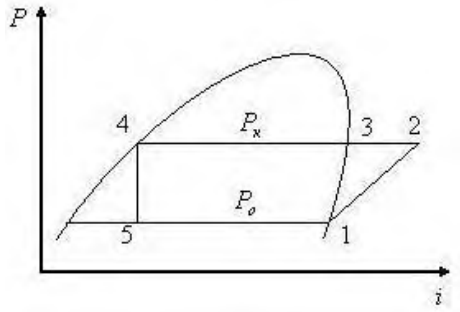

а) 4 — 5;

б) 2 — 3 – 4;

в) 5 — 1;

г) 1 — 2.

14. Переохлаждение жидкого агента в переохладителе жидкости это процесс:

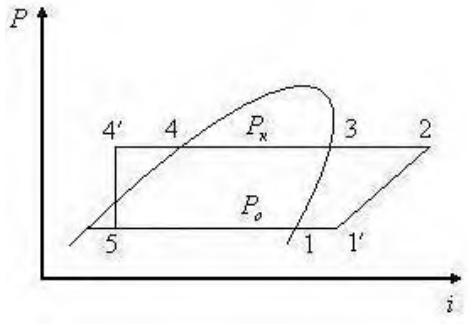

а) 2, 3;

б) 4, 4′;

в) 5, 1;

г) 1, 1′.

15. Переохлаждение жидкого агента 4, 4′ перед дросселированием приводит к:

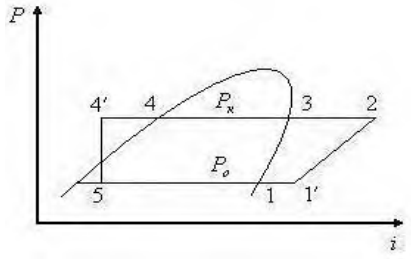

а) понижению температуры кипения агента;
б) уменьшению холодильного коэффициента ε;
в) увеличению холодильного коэффициента ε;
г) уменьшению работы цикла.

16. В цикле двухступенчатой холодильной машины с неполным промежуточным охлаждением и одним дросселированием процесс 5, 6 происходит в:

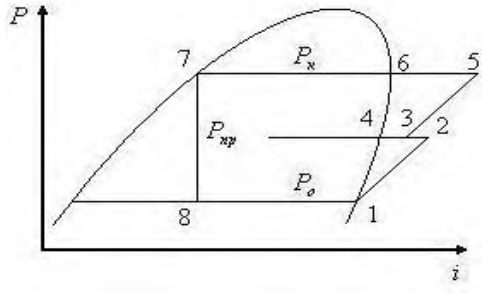

а) компрессоре СВД;
б) промежуточном холодильнике;
в) конденсаторе;
г) испарителе.

17. Цикл двухступенчатой холодильной машины с полным промежуточным охлаждением и двойным дросселированием. Какой из компрессоров больший по размеру СНД или СВД?

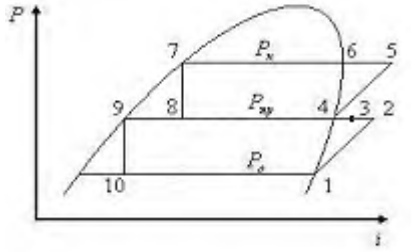

а) компрессор СНД (ступени низкого давления);
б) компрессор СВД;
в) оба компрессора имеют одинаковые размеры.

18. Холодопроизводительность компрессора 1 января по отношению к холодопроизводительности этого же компрессора на 1 июля будет:
а) большей; б) меньшей; в) такой же.

19. Герметичный компрессор — это компрессор, в котором:
а) всасывающие клапаны герметично отделены от нагнетательных;
б) для герметизации устанавливают на коленчатом валу сальник;
в) электродвигатель и компрессор находятся в герметичном кожухе.

20. Коэффициент подачи конкретного компрессора зависит только от:
а) числа цилиндров;
б) хода поршня;
в) относительной величины мертвого пространства;
г) давления нагнетания;
д) степени сжатия пара в компрессоре.

21. Какого множителя *x* не достает в приведенной ниже формуле, чтобы вычислить объемную производительность поршневого компрессора?

$$V_h = \frac{\pi D^2}{4} \cdot H\, n\, x \text{, м}^3/\text{с}$$

22. В компрессоре П 110-2-3 цифра 2 указывает на:
а) число цилиндров;
б) холодильный агент;
в) тип электродвигателя;
г) температурное исполнение.
23. Правильная расшифровка марки компрессора ДАУ звучит так:
а) двухцилиндровый агрегат, V-образный;
б) двухступенчатый аммиачный, V-образный;
в) двухступенчатый агрегат унифицированный;
г) агрегат V-образный двойного действия.
24. Какой тип холодильного компрессора не используется в пищевой промышленности?
а) винтовой; б) спиральный; в) поршневой; г) плунжерный.
25. Сколько типов поршневых колец используется в поршневом компрессоре?
а) один; б) два; в) три.
26. Холодопроизводительность поршневого компрессора Q_0 равна произведению объемной производительности компрессора V_h, удельной объемной холодопроизводительности компрессора q_V и …
а) холодильного коэффициента;
б) индикаторного КПД компрессора;
в) числа цилиндров в компрессоре;
г) коэффициента подачи.
27. В компрессоре П 110-2-3 цифра 3 указывает на:
а) число цилиндров;
б) холодильный агент;
в) тип электродвигателя;
г) температурное исполнение.
28. Что такое «стандартная» холодопроизводительность поршневого компрессора $Q_{0\,ст}$?
а) его производительность при некоторых зафиксированных температурных условиях;
б) его производительность в определенный период года;
в) это холодопроизводительность компрессора, когда он работает на определённом (стандартном) холодильном агенте.
29. Укажите в каком варианте теоретическая N_T, электрическая $N_Э$, индикаторная N_i и эффективная N_e мощности плавно возрастают:
а) $N_T < N_i < N_Э < N_e$;
б) $N_i < N_e < N_Э < N_T$;

в) $N_T < N_i < N_e < N_Э$;
г) $N_Э < N_e < N_i < N_T$.
30. Какой тип соединения не используется при передачи крутящего момента от ротора электродвигателя к коленчатому валу компрессора?
а) клипоременной; б) зубчатый; в) муфтовый;
31. В марке компрессора АД 130-7-2 что обозначает буква А?
а) аммиачный;
б) агрегат;
в) двойного действия;
г) Астраханский завод холодильного машиностроения.
32. Есть два одинаковых компрессора. Один снабжён воздушным конденсатором, а другой – кожухотрубным. Какой из конденсаторов будет большим по размеру:
а) воздушный; б) кожухотрубный; в) размеры будут одинаковыми.
33. Вода на входе в кожухотрубный конденсатор отличается от воды на выходе из него:
а) более низкой температурой;
б) более высокой температурой;
в) агрегатным состоянием.
34. Для чего в схему холодильной машины включают кожухотрубный испаритель?
а) для испарения холодильного агента;
б) для охлаждения проточной воды;
г) для охлаждения рассола;
д) для охлаждения оброротной воды.

Методические материалы, определяющие процедуры оценивания знаний, умений, навыков

При изучении дисциплины в течение семестра студент максимально может набрать 40 баллов.

Система оценивания всех видов работ по дисциплине «Теоретические основы холодильной техники» приведена в таблицах.

Текущий контроль знаний студентов осуществляется на основании оценки: систематичности и активности по каждой теме программного материала дисциплины.

Текущий контроль знаний студентов осуществляется с помощью контрольной работы и тестовых заданий.

Промежуточная аттестация осуществляется в форме зачета.

Относительно распределения баллов на итоговом контроле оценки знаний, умений и навыков студентов по результатам выполнения заданий используется следующая шкала оценивания:

90-100 баллов выставляется в случае полного качественного выполнения всех заданий или при наличии одной или двух незначительных ошибок в вычислении, решение четкое и обоснованное, использования творческих подходов;

75-89 баллов выставляется тогда, когда студент показал способность к применению изученного материала к решению задач; объяснения и обоснования полностью соответствуют требованиям программы дисциплины, но являются недостаточными; четкое оформление решения задач; решение содержит одну или две несущественные ошибки;

60-75 баллов выставляется, если студент овладел навыками решения стандартных задач, умением проводить аналитические расчеты, но решение задач содержит большое количество существенных ошибок;

0-50 баллов выставляется в случае, когда ни одно из заданий не выполнено или их решение содержит очень большое количество существенных ошибок; студент не показал владение теоретическими знаниями и приемами решения задач.

Опираясь на знания студентов, преподаватель оставляет за собой право решающего слова во время оценивания знаний.

Распределение баллов

Максимальное количество баллов за текущий контроль и самостоятельную работу						**Максимальная сумма баллов**		
Смысловой модуль 1		Смысловой модуль 2		Смысловой модуль 3		**Текущий контроль**	**Экзамен**	**Все виды учебной деятельности**
Т1	Т2	Т3	Т4	Т5	Т6	40	60	100
5	5	10	10	5	5			

Государственная шкала оценивания академической успеваемости

Сумма баллов за все виды учебной деятельности	По государственной шкале
90-100	5 «отлично»/ «зачтено»
75-89	4 «хорошо» / «зачтено»
60-74	3 «удовлетворительно» / «зачтено»
менее 60	2 «неудовлетворительно»/ «не зачтено»